MATH THINK

تنظیم کننده: الهه شکوری
منبع: تألیفی

نام و نام خانوادگی: ..... تاریخ: .....

دوست خوبم، هر کدام از ساعت‌های زیر چه کسری از ساعت رنگ شده؟ یعنی چند دقیقه؟

به دلخواه چندتا از ساعت‌ها را انتخاب کن و جاهای خالی مربوط به آن‌ها را مانند نمونه پر کن.



$\frac{۱}{۱}$ ساعت رنگ شده است، یعنی ۶۰ دقیقه

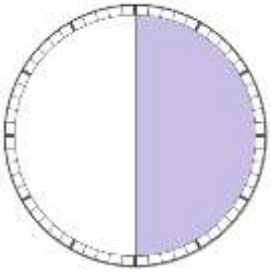

$\frac{۱}{۲}$ ساعت رنگ شده است، یعنی ۳۰ دقیقه

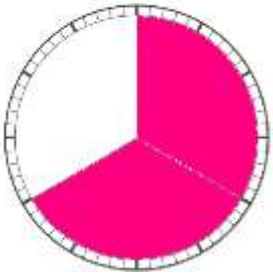

$\frac{...}{...}$ ساعت رنگ شده است، یعنی ..... دقیقه

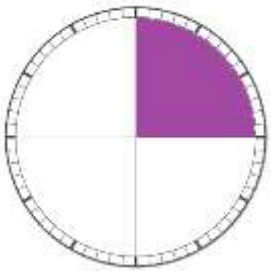

$\frac{...}{...}$ ساعت رنگ شده است، یعنی ..... دقیقه

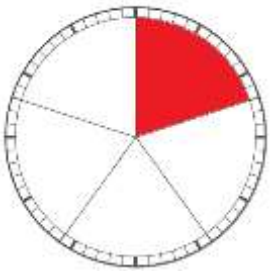

$\frac{...}{...}$ ساعت رنگ شده است، یعنی ..... دقیقه

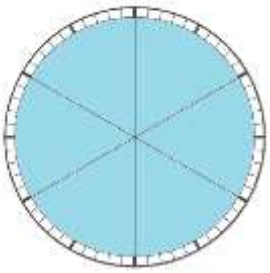

$\frac{...}{...}$ ساعت رنگ شده است، یعنی ..... دقیقه

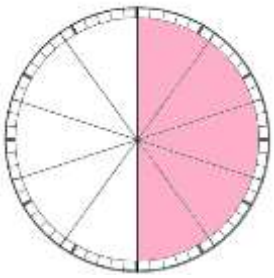

$\frac{...}{...}$ ساعت رنگ شده است، یعنی ..... دقیقه

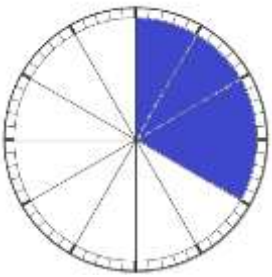

$\frac{...}{...}$ ساعت رنگ شده است، یعنی ..... دقیقه

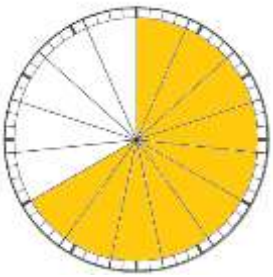

$\frac{...}{...}$ ساعت رنگ شده است، یعنی ..... دقیقه

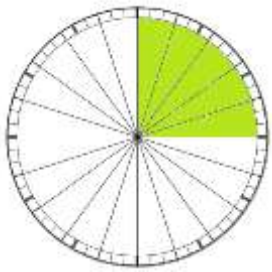

$\frac{...}{...}$ ساعت رنگ شده است، یعنی ..... دقیقه

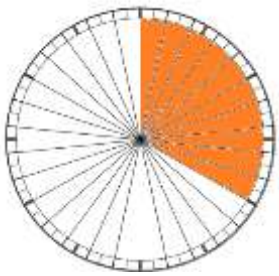

$\frac{...}{...}$ ساعت رنگ شده است، یعنی ..... دقیقه

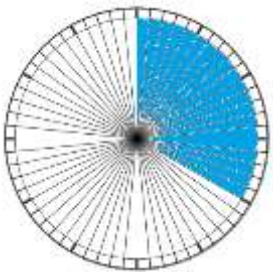

$\frac{...}{...}$ ساعت رنگ شده است، یعنی ..... دقیقه